平成 23 年度

北嶺中学校入学試験問題

社　　会

（注意）

1　問題用紙が配られても、「はじめ」の合図があるまでは、中を開かないでください。

2　問題は全部で **14** ページで、解答用紙は 1 枚です。「はじめ」の合図があったら、まず、ページ数を確認してからはじめてください。もし、ページがぬけていたり、印刷されていなかったりする場合は、静かに手をあげて先生に伝えてください。

3　答えはすべて解答用紙の指定された解答らんに書いてください。

4　字数が指定されている場合には、特に指示のないかぎり句読点も数えてください。

5　質問があったり、用事ができた場合には、だまって手をあげて先生に伝えてください。ただし、問題の考え方や、言葉の意味・読み方などについての質問には答えられませんので注意してください。

6　「おわり」の合図で鉛筆をおき、先生が解答用紙を集めおわるまで、静かに待っていてください。

1　次の文を読み、後の問いに答えなさい。

北海道は、日本の中でも(a)自然が豊富なところです。札幌の年間の平均気温は約8.5℃、降水量は約1,100mmで、四季が明瞭な冷帯に属しています。しかし、(b)昨年の夏は日本列島は猛暑となり、北海道でも36℃を超えるような日が続きました。北海道は山間部を中心に森林が広がり、林業の生産量は全国一です。平地の水田や畑での農業生産も日本有数で、(c)酪農や畜産も盛んです。

また、北海道は馬の飼育頭数でも全国有数です。北海道と馬の関係はとても深いものがあります。江戸時代に、夏の間、農耕するために現在の岩手県から連れてきた「南部馬」が冬の間、北海道に放置されたため、厳しい寒さなどに適応するようになったものが「北海道和種」という、いわゆる「道産子（どさんこ）」と呼ばれる馬だといわれています。馬は北海道の開拓と発展に大いに活用され、機械や車がない時代に、人の力をはるかに越える馬力を発揮して切り倒した大木を引き、土地を耕し、人や荷物を運びました。雪が積もって荷車の使えない季節には馬橇（そり）を引いて荷物を運びました。

「道産子」は「ばん馬」とも呼ばれ、ダービーなどに出る競走馬の（　①　）と比べて体が大きく重量があり、足も太くてがっしりとしています。北海道には、世界的にも珍しい「ばん馬」の競馬があり、ばんえい競馬とよばれます。鉄製の重い橇を引き、障害が設置された直線のコースで走力と持久力を競うものです。ばんえい競馬は、以前は道内の４か所で行われていましたが、現在は(d)帯広市だけで開催されています。

一方、競走馬の生産も北海道が全国１位です。とくに(e)日高地方がさかんで、全国の競走馬の70%以上を生産しています。日高支庁の新冠町から新ひだか町へつづく国道235号線は「（　①　）ロード」とよばれ、また新冠町には「（　①　）銀座」とよばれるほど牧場が連なる地域があります。その新冠町で、昨年７月に人気馬だったオグリキャップが死にましたが、その時に日高地方を訪れていた(f)北海道知事が弔問（ちょうもん）と献花に立ち寄りました。

このように、北海道と馬との関わりの歴史は、北海道の文化を代表するものとして(g)北海道遺産に選定されています。

（1）空らん（　①　）に適する語句を**カタカナ**で答えなさい。

（2）下線部(a)について、右の地図のＡ川は、北海道中央部にある活火山の付近に源を発して南東に流れ、多くの支流を集めて太平洋に注ぎます。この川は、長さは石狩川、天塩川に次いで道内第３位ですが、流域面積は道内で２位、全国でも６位の広さで、開拓の初期には水上交通にも利用されました。Ａ川の名を**漢字**で答えなさい。

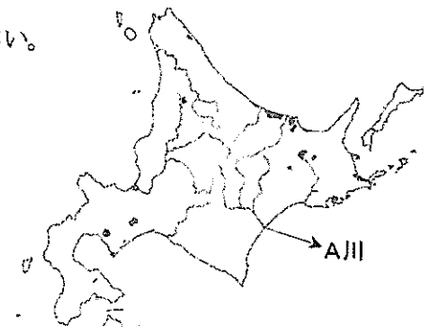

（3）下線部(b)について、昨年の猛暑で、**Ｂ町**では37.1℃、**Ｃ市**でも37.1℃、普段は冷涼な**Ｄ市**でも32.4℃を記録するなど、北海道各地で観測史上最高気温を大幅に塗り替えました。次の表は、**Ｂ町**、**Ｃ市**、**Ｄ市**の人口（2010年）や面積、産業などの特徴を示したものです。**Ｂ町**、**Ｃ市**、**Ｄ市**の組み合わせとして正しいものを、下のア～カのうちから１つ選び、記号で答えなさい。

	人口	面積	産業などの特徴
Ｂ町	7,862人	1,408km²	乳牛・肉牛などを飼育する酪農・畜産と畑作が中心。町の面積の８割が山林であるので、林業もさかん。東部の阿寒国立公園には景勝地のオンネトー湖や雌阿寒温泉がある。
Ｃ市	125,998人	1,428km²	明治時代にハッカの栽培を導入して成功し、全国一の生産地となって海外にも大量に輸出されたが、近年は衰退した。現在ではタマネギの生産量が全国一で国内生産量の25%以上を占めている。
Ｄ市	185,190人	1,363km²	全国有数の水揚げ量をほこる水産業と、市の工業出荷額の40%をしめる製紙業が中心。以前は石炭の産出もさかんだった。郊外には日本最大といわれる湿原があり、1980年には日本で最初にラムサール条約に登録された。

ア　**Ｂ町**-岩内町　**Ｃ市**-富良野市　**Ｄ市**-稚内市　　イ　**Ｂ町**-岩内町　**Ｃ市**-名寄市　**Ｄ市**-苫小牧市
ウ　**Ｂ町**-足寄町　**Ｃ市**-富良野市　**Ｄ市**-稚内市　　エ　**Ｂ町**-足寄町　**Ｃ市**-北見市　**Ｄ市**-釧路市
オ　**Ｂ町**-美瑛町　**Ｃ市**-名寄市　**Ｄ市**-苫小牧市　　カ　**Ｂ町**-美瑛町　**Ｃ市**-北見市　**Ｄ市**-釧路市

（4）下線部(c)について、昨年は酪農や畜産を行う農家が大きな不安を抱えた年でした。畜産がさかんなＥ県で口蹄疫（こうていえき）が発見され、８月末の終息宣言までの4カ月間に牛・豚約29万頭が殺処分されました。感染は北海道には及びませんでしたが、道内の酪農家も不安な日々を過ごしました。終息宣言後のＥ県では畜産を再開し、復興をはかっています。そもそもＥ県や隣接する鹿児島県で畜産がさかんになったのは、北海道の日高地方や根釧台地で酪農や畜産がさかんになったのと共通の理由があります。その理由として適当なものを、次のア～エのうちから１つ選び、記号で答えなさい。

ア　どちらも農作物の大消費地に隣接し、新鮮さが求められる酪農・牧畜に有利である。
イ　どちらも火山灰が積もった土地で、稲作や畑作が難しい。
ウ　どちらも夏に濃霧が発生して日照時間が少ないため、農作に適さない。
エ　どちらも海に面する地域で、乳製品や畜産品の海外への輸出に有利である。

（5）下線部(d)について、次の①～②の問いに答えなさい。

① 帯広市や周辺の町には六花亭や柳月、花畑牧場などの全国的に有名な菓子メーカーの本店や工場がたくさんあります。これは、この地域で高い品質の菓子の原料が生産されていることが背景にあります。次のグラフＦ～Ｇは、菓子の原料となる２つの作物の都道府県別の収穫量の割合を示しています。Ｆ～Ｇにあてはまる農作物の組み合わせとして正しいものを、下のア～カのうちから１つ選び、記号で答えなさい。



ア　Ｆ―小麦　　Ｇ―卵（たまご）　　イ　Ｆ―牛乳（生乳）　Ｇ―てんさい
ウ　Ｆ―さとうきび　Ｇ―卵　　エ　Ｆ―牛乳（生乳）　Ｇ―小豆（あずき）
オ　Ｆ―小麦　　Ｇ―さとうきび　　カ　Ｆ―てんさい　　Ｇ―小豆

② 帯広市から 20km ほど東に池田町があります。この池田町の特産品はワインですが、右のグラフは、ワインの原料となる農産物の都道府県別の生産高の割合を示します。グラフ中のＨ～Ｉに適する都道府県名を漢字で答えなさい。

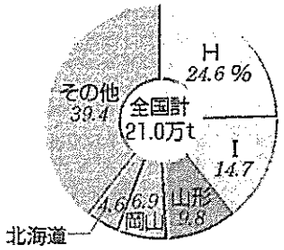

（６）下線部(e)について、日高地方は山間部や襟裳岬周辺が「日高山脈襟裳国定公園」になっています。北海道内には、この他に「大沼」「網走」「ニセコ積丹小樽海岸」「暑寒別」の４か所の国定公園があります。このうち「暑寒別」は、対岸の２つの島とともに国定公園を構成しています。２つの島は、オロロン鳥（ウミガラス）などの希少な海鳥の営巣地として有名ですが、この２つの島を説明した文として正しいものを、次のア～エのうちから１つ選び、記号で答えなさい。

ア　２つの島は天売島と焼尻島で、羽幌町の沖の日本海にある。
イ　２つの島は歯舞島と色丹島で、根室市の沖のオホーツク海にある。
ウ　２つの島は利尻島と礼文島で、稚内市の沖の太平洋にある。
エ　２つの島は奥尻島と大島（渡島大島）で、伊達市の沖の日本海にある。

（７）下線部(f)について、次の①～②の問いに答えなさい。

① 高橋はるみ北海道知事は、就任以来、熱心に北海道新幹線の建設をうったえています。昨年 12 月には東北新幹線が新青森駅まで開通し、いよいよ北海道新幹線も夢ではなくなってきました。現在、営業している国内の新幹線は、次のようになっていますが、空欄（　Ｊ　）にあてはまる新幹線の名を漢字で答えなさい。

名称	始点駅	終点駅	営業キロ数
東海道新幹線	東京駅	新大阪駅	552.6km
東北新幹線	東京駅	新青森駅	631.9km
山陽新幹線	新大阪駅	博多駅	644.0km
（　Ｊ　）新幹線	大宮駅	新潟駅	303.6km
北陸（長野）新幹線	高崎駅	長野駅	117.4km
九州新幹線鹿児島ルート	新八代駅	鹿児島中央駅	137.6km

② 現在の女性の都道府県知事は、高橋はるみ北海道知事の他に、嘉田由紀子滋賀県知事、吉村美栄子山形県知事の２人がいます。過去には、大阪府、熊本県、千葉県にも女性の知事がいました。これらの女性知事を選出した道府県のうち、滋賀、山形、熊本、千葉の４つの県の中で、もっとも人口密度の高い県を、次のア～エの図から１つ選び、記号で答えなさい。

ア

イ

ウ

エ


（８）下線部(g)について、北海道は冷帯に属し、山林の多くにはエゾマツやトドマツ、カラマツなどの針葉樹林が広がっていますが、一部には温帯を代表する樹木が見られます。中でも、太平洋側の長万部と日本海側の寿都を結ぶ低地帯を北限とする落葉広葉林は有名で、この森林の北限として北海道遺産に指定されています。この森林のある場所と落葉広葉樹の組み合わせとして正しいものを、次のア～エのうちから１つ選び、記号で答えなさい。

ア　別海町―ブナ　　イ　別海町―クス　　ウ　黒松内町―ブナ　　エ　黒松内町―クス

2　次の文を読み、後の問いに答えなさい。

昨年の６月から７月にかけて、サッカーのワールドカップが(a)南アフリカ共和国で開催されました。この南アフリカ共和国について調べてみると、意外なことに、この国には首都が３つあることがわかりました。三権分立の観点から、立法機関である国会がおかれているケープタウン、行政の中心地で各国の大使館もあるプレトリア、（　①　）の中心である最高裁判所のおかれているブルームフォンテーンの３つです。サッカー日本代表が初戦でカメルーンと対戦し、本田圭佑選手のゴールで勝利した競技場は、このブルームフォンテーンにあります。

日本代表が予選リーグで対戦し、決勝戦でスペインに敗れた(b)オランダも、「２つの首都がある」といわれる国です。オランダの首都は、法律では人口が最大の都市アムステルダムに定められていますが、この都市には議会も行政機関も国王が常に居住する宮殿もありません。これらはすべてハーグという都市に置かれ、この都市が事実上の首都となっています。ハーグは、オランダで人口が３番目に多い都市であり、同時に150もの国際機関がある国際都市でもあります。

オランダのように、その国の経済や文化の中心である都市と、政治の中心である首都が異なる国は、他にもいくつかあります。(c)アメリカ合衆国やオーストラリア、ブラジルなどがその例です。しかし、世界中の多くの国では、古くからの政治や経済の中心であった都市が現在の首都になっています。中には、シリアの首都ダマスカスやギリシアの首都アテネのように、(d)遠く古代文明にまで歴史をさかのぼることのできる都市もあります。

日本の首都である東京も、比較的歴史の古い都市です。今から約400年前に徳川家康が幕府を開いてから、実質的に日本の行政の中心となり、(e)人口が100万人を超える世界で最大級の大都市になりました。明治時代になって江戸から東京に改称され、1923年の関東大震災と1945年の東京大空襲で壊滅的な打撃をうけながら、現在まで日本の政治や経済、文化の中心として発展してきました。(f)現在の東京には、出版社や放送局が数多く集まり、新聞記事やテレビ番組の多くが、東京から全国に送られています。大学も多数あり、全国から進学のために学生が集まっています。このように東京には、種類も数も豊富な仕事やさまざまなサービス、(g)多くの情報などがあるため、それを求めて(h)人々や企業が集中します。そのために(i)さまざまな問題も発生し、いろいろなものが東京に集中しすぎている状態をゆるめることが、今日の政治的な課題になっています。

このように、小さなことをきっかけに興味をもって調べると、いろいろなことがわかってきますね。君たちも北嶺中学に入学して、探求心をもって学んでいってほしいです。

（１）空らん（　①　）に適する語句を漢字で答えなさい。

（2）下線部(a)の国は、アフリカ大陸の南端にあり、右の地図のように（　A　）洋と（　B　）洋の２つの大洋に面しています。（　A　）～（　B　）の組み合わせとして正しいものを、次のア～エのうちから１つ選び、記号で答えなさい。

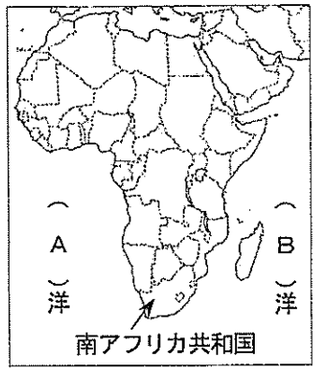

ア　A ― 太平　　B ― マダガスカル
イ　A ― 太平　　B ― インド
ウ　A ― 大西　　B ― インド
エ　A ― 大西　　B ― マダカスカル

（3）下線部(b)について、オランダは日本が江戸時代に鎖国をしていた間も正式な国交を保ち続けましたが、最初に日本にやってきたオランダ人は、1600年に豊後国（現在の大分県）に漂着したリーフデ号という商船の乗組員でした。リーフデ号の漂着地は臼杵（うすき）湾といわれますが、ここから南につづく海岸は、右の地図に見られるように、入江と岬がくりかえす複雑な海岸線となっています。この海岸の地形を説明した文として正しいものを、下のア～エのうちから１つ選び、記号で答えなさい。

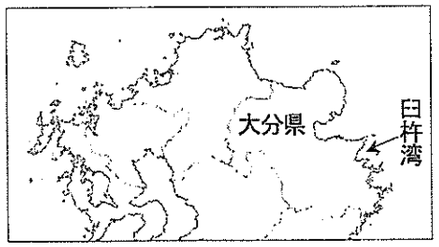

ア　遠浅の砂浜がつづく海岸で、陸地には平野がつらなっている地形です。以前はイワシの地引き網漁がさかんでしたが、近年は衰退しています。
イ　険しい山地が海に沈んでつくられた地形で、水深の深い入り江や湾が古くから天然の良港になってきました。また、入り江は波が穏やかなため、近年は養殖漁業がさかんです。
ウ　温かく浅い海で成長するサンゴ虫によってつくられた海岸で、さまざまな種類の生物が成育しています。海の透明度が高く、多くの人が海水浴やダイビングなどに訪れます。
エ　氷河によって削られた深い谷が沈み、そこに海水が入り込んでつくられた地形です。深く長い入江の際まで山や高原がせまる雄大な景観に、多くの観光客が訪れます。

（4）次の表は、下線部(c)の国々の最大の都市と首都の人口を示しています。表中の空らん（　C　）～（　E　）に適する都市名の組み合わせとして正しいものを、下のア～エのうちから１つ選び、記号で答えなさい。

国名	最大の都市、人口	首都、人口
アメリカ合衆国	ニューヨーク、800万人	（　C　）、57万人
オーストラリア	（　D　）、434万人	キャンベラ、39万人
ブ　ラ　ジ　ル	サンパウロ、1,115万	（　E　）、245万人

ア　C ― ボストン　　D ― バンコク　　E ― ブラジリア
イ　C ― ワシントン　　D ― バンコク　　E ― ブエノスアイレス
ウ　C ― ボストン　　D ― シドニー　　E ― ブエノスアイレス
エ　C ― ワシントン　　D ― シドニー　　E ― ブラジリア

（5）下線部(d)について、中国も古くから文明の栄えた地域の１つですが、その文明は、周辺の地域とは比べものにならないほど高い農業生産力に支えられたものでした。現在でも中国は世界有数の農業国で、米や小麦は、次の【グラフ１】のように世界一の生産をあげています。この【グラフ１】と、日本の米の都道府県別の生産高を示す【グラフ２】について述べた文として適当なものを、下のア～エのうちから１つ選び、記号で答えなさい。

【グラフ１】おもな穀物の生産国



【グラフ２】米の都道府県別の生産高

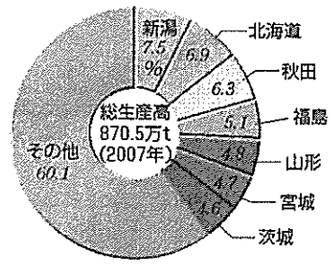

ア　中国の米の生産高は、日本の米の生産高のおよそ20倍である。
イ　世界の米の生産高のうち、日本はおよそ４％の生産高がある。
ウ　新潟県の米の生産高は、ロシアの小麦の生産高とほぼ等しい。
エ　アメリカ合衆国のとうもろこしの生産高は、日本の米の生産高のおよそ10倍である。

（6）下線部(e)について、このころの江戸の町は、現在の丸の内（東京駅の近辺）を中心とした半径４㎞ほどの広さでした。丸の内の周辺は、現在でも東京の中心で、省庁などの行政の機関や、大企業の本社、銀行の本店などが集中しています。しかし、近年になって、集中しすぎた首都の機能の一部を「副都心」とよばれる地区に移転させています。このような副都心を１つ答えなさい。

（7）下線部(f)について、現在の東京では、中心部が周囲よりも気温が高くなる「ヒートアイランド現象」が進行し、次のグラフのように東京の年平均気温は、過去100年間で約３℃も上昇しています。これに関する後の文章の空らん（　F　）～（　G　）に適する語句を答えなさい。

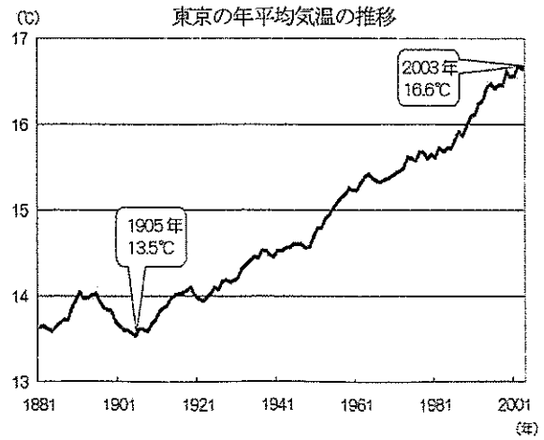

ヒートアイランド現象は、（　F　）の減少や、エアコンや（　G　）などの人工的な排熱の増加が原因として考えられます。そのため、東京都は、建物を新築する際に敷地や屋上に樹木や植物を植えることを義務づけたり、小中学校の校庭を芝生にしたり、また省エネルギーの推進に取り組んだりしています。

（8）下線部(g)について、東京は政治・経済・文化の中心であり、さまざまな情報が得やすいために、ある産業が他の地域と比べて著しく発達しています。次の２つのグラフは、東京都と神奈川県の工業出荷額の比率（2006年）を示し、空らん（　H　）はこの産業をあらわしますが、同じ京浜工業地帯に隣接する２つの都県で、この産業の出荷額に大きなちがいがあることがわかります。空らん（　H　）に適する産業を答えなさい。

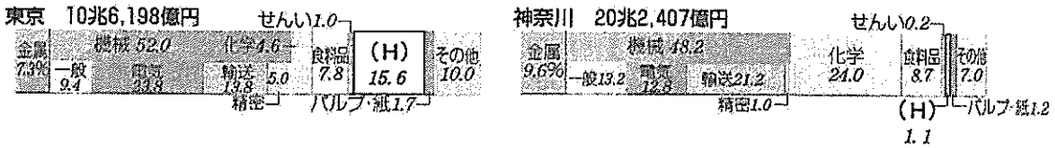

（9）下線部(h)について、東京とその近郊には外国と輸出入を行う大きな貿易港も集中しています。次の図は、日本の主な貿易港の輸出・輸入額（2008年）を示します。日本で最大の貿易港である（　I　）は、千葉県にあり、集積回路などの小型・軽量で価格の高い商品の輸出入や、マグロ・ウナギや野菜・果物などの鮮度が求められる食品の輸入が多いことに特徴があります。（　I　）の名を答えなさい。



（10）下線部(i)について、1960年代以降の東京では、地価の異常な値上がりや大気汚染・騒音などによって生活環境が悪くなり、多くの人が郊外へ移り住み、中心部の人口が減少して郊外などの周辺の人口が増加する現象がみられます。この現象を何といいますか。

3　次の文と資料を読み、後の問いに答えなさい。

【資料Ⅰ】

一に曰く　和を貴び、人にさからうことがないように心がけよ。
二に曰く　(a)あつく三宝を敬え。三宝とは仏と、その教えと、それを説く僧侶である。
三に曰く　天皇の詔を受けたら、必ず謹んでこれに従え。君は天であり、臣は地である。
四に曰く　役人は礼を重んじよ。
五に曰く　裁判は公平に行え。
六に曰く　悪をこらしめ、善をすすめることは、昔のよい教えである。
七に曰く　(b)役人を採用するときは、家柄によるのではなく、その任務にふさわしい人物を広く求めよ。
八に曰く　役人は早く出勤し、遅く退出せよ。
九に曰く　すべてのことに真心をもってあたれ。
十に曰く　寛容な心をもって事にのぞめ。
十一に曰く　功績と失敗をよく見分けて、賞罰を明らかにせよ。

【資料Ⅰ】は、（　①　）に定められたものです。これを定めたとされるのは、天皇を補佐する摂政という役職についていた厩戸皇子といわれています。この人物は、(c)平安時代ころから聖徳太子とよばれるようになり、現在ではこの名の方がよく知られています。聖徳太子は、叔母に当たる推古天皇を助けて政治の改革を行いました。その１つが【資料Ⅰ】を定めたことでした。この他に、約100年ぶりに国書を持った使者を中国へ送り、外交関係を再開しました。この国書の内容は中国の歴史書に残されていますが、内容は【資料Ⅱ】のようなものでした。

【資料Ⅱ】

(d)日本の王多利思比孤（聖徳太子）が使者（小野妹子）を遣わして朝貢してきた。使者はこう言った。「海西の菩薩天子が仏法を盛んにしていると耳にしました。そこで天子に礼をつくし、同行させた数十人の僧に仏法を学ばせるためにやってまいりました」と。(e)その使者の持ってきた国書には「太陽ののぼるところの天子が、太陽の沈むところの天子に手紙をさしあげます。お変わりありませんか」と書かれていた。皇帝の煬帝は、この国書を見て不愉快に思い、「今後、このような野蛮国からの無礼な国書を二度と耳に入れるな」と言った。

【資料Ⅱ】では、小野妹子が使者として送られ、その時十数名の(f)留学僧を連れていたことや、国書を届けられた(g)隋の皇帝煬帝が腹を立てたことなどが記されています。やがて、帰国した使者の報告を聞いた聖徳太子は、中国の強大さに驚き、(h)この後たくさんの留学生を派遣し、さまざまなことを中国から学ぼうとしました。

（1）空らん（　①　）に適する時代を、次のア～エのうちから１つ選び、記号で答えなさい。

ア　６世紀前半　　イ　６世紀後半　　ウ　７世紀前半　　エ　７世紀後半

(2)【資料Ⅰ】の下線部(a)について、このように仏教が重視されたため、法隆寺をはじめとする多くの寺院が建てられました。法隆寺は聖徳太子が建立したといわれていますが、次のア～エの図のうち、法隆寺に最も関係の深いものを１つ選び、記号で答えなさい。



(3)【資料Ⅰ】の下線部(b)について、このような実力本位の人材登用を実現させるために、新たにある制度がつくられました。その制度を何といいますか。

(4)【資料Ⅰ】に関する文として、最も適切なものを次のア～エのうちから１つ選び、記号で答えなさい。

ア　全部で97ヵ条に及ぶ条文で、政治を行う手法について、細かなことがらまで定めている。
イ　豊かな社会をめざすため、日々の倹約や勤勉を説いたものである。
ウ　争いごとが多かったため、その解決のための裁判の基準を具体的に定めている。
エ　天皇を中心とした新しい国づくりのための心得を豪族たちに示したものである。

(5) 下線部(c)について、この時代は貴族が政治の中心でしたが、後半になると貴族に代わって武士が台頭してきました。その武士の台頭の先駆けとなるできごとが、10世紀前半に２つ起きました。そのうちの１つが平将門の乱で、もう１つが藤原純友の乱です。２つの乱の起きた場所を、次の地図中のア～オのうちからそれぞれ選び、記号で答えなさい。

(6)【資料Ⅱ】の下線部(d)について、資料の原文では、この国名は「日本」ではなく「倭」と記されています。この「倭」という国名は、江戸時代に志賀島で発見された金印にも刻まれていました。金印に刻まれた文字は、左の図のような５文字で「(　A　)倭(　B　)国王」と読むことができます。空らんの(　A　)と(　B　)に適する国の名を、それぞれ漢字で答えなさい。



(7) 次の文は、【資料Ⅱ】の下線部(e)について述べたものです。空らん(　C　)に適する語句を答えなさい。

聖徳太子は中国の隋の皇帝に対して、(　C　)な関係を求めた。

(8) 下線部(f)について、その後多くの僧が中国に渡りました。その中で最も有名な僧の一人である空海は、帰国後に高野山に金剛峯寺を建て、新しい宗派を開きました。この高野山は周辺の山地の霊場と参詣道とともに、2004(平成16)年にユネスコ世界文化遺産に登録されました。空海が開いた宗派と、高野山のある県の名を、それぞれ漢字で答えなさい。

(9) 下線部(g)について、隋は短命で滅び、かわって唐が中国を支配しました。都の長安は国際的な大都市として世界に知られていましたが、この長安をまねて作られた日本の都が平安京でした。平安京に都が置かれていた時代に、政治の実権を握っていた貴族に藤原氏がいます。藤原氏が政治の実権を握るようになった要因として**適当でないもの**を、次のア～オのうちから**２つ**選び、記号で答えなさい。

ア　唐との外交関係を強め、進んだ知識や技術を導入するとともに、唐の強大な軍事力を背景に実権を握った。
イ　一族の娘を天皇の妃にし、その子を自分たちの手元で養育して成人したら天皇に立てることを繰り返し、実権を握った。
ウ　さまざまな策略をめぐらせて、他の有力貴族を次々に政権から追放していき、やがて実権を握った。
エ　天皇が幼いころには摂政の地位を、成人してからは関白の地位を一族で独占することで実権を握った。
オ　地方の政治にも目を配ることで地方豪族の支持を得たうえ、荘園を整理して朝廷の税収を安定させたことを背景に実権を握った。

(10) 下線部(h)について、これ以降現在に至るまで日本から多くの留学生が海外に渡り、さまざまな知識や文化を伝えています。明治初期に幼くして女子留学生第一号として渡米し、帰国後女子教育のための学校を設立した人物として正しいものを、次のア～エのうちから１つ選び、記号で答えなさい。

ア　樋口一葉　　イ　与謝野晶子　　ウ　平塚らいてう　　エ　津田梅子

4　次の文を読み、後の問いに答えなさい。

右の写真は、幕末の志士として有名な坂本龍馬（竜馬）像です。土佐（現在の高知県）出身の坂本龍馬は(a)反幕府の同盟の成立や(b)大政奉還の実現に大きく貢献したとされる人物で、歴史小説や(c)テレビドラマにも度々取り上げられてきました。しかし、その人気の高さゆえに坂本龍馬の英雄的イメージがどんどんふくらんできており、史実とかけ離れているのではないかという指摘もしばしばなされています。そもそも坂本龍馬とは生前よりも死後に有名になった人物ですが、どのような経緯でこれほどまでに有名になったのでしょうか。

幕末に活躍したとされる坂本龍馬ですが、明治初期の日本では、その存在はあまり知られることはなかったようです。坂本龍馬の存在を世間に最初に広めたのは、坂本龍馬と同じ高知出身の坂崎紫瀾（しらん）という人物だったといわれます。ジャーナリストであり(d)自由民権運動家でもあった坂崎紫瀾は、1883（明治16）年に高知の新聞に坂本龍馬の伝記である『汗血千里駒（かんけつせんりこま）』の連載を開始しました。これが人気を博し、広く読まれたのです。当時の自由民権運動という気風のなかで、自由で度量が大きい坂本龍馬というイメージの原形がこの作品のなかでつくられていったようです。

次に坂本龍馬の名が全国に知られたのは、1904～05（明治37～38）年の(e)日露戦争のときでした。日本海海戦を前にしたある日、明治天皇の皇后の夢のなかに１人の男があらわれて日本海軍の勝利を予言したというのです。翌日、皇后の話を聞いた宮内大臣の田中光顕（みつあき）（高知出身）が坂本龍馬の写真を皇后に見せたところ、皇后は夢のなかの人物はこの人物であったと言ったそうです。この話は(f)新聞などに掲載され、日本海海戦に向けて国民の士気は大いに高まり、坂本龍馬の名が全国に知られるようになったそうです。この話の真偽はさておき、坂本龍馬の名が戦争という危機のなかで利用され、その英雄的イメージが形づくられていったことは興味深いことです。

その後(g)２度の世界大戦が起こります。地元高知の有志によって右上の写真の坂本龍馬像が桂浜に建てられたのは、２度の世界大戦の間の1928（昭和３）年でした。戦後、全国的な坂本龍馬の人気を決定的にしたのは(h)1962（昭和37）年に連載が開始された司馬遼太郎の『竜馬がゆく』でしょう。この作品がベストセラーとなり、その後の坂本龍馬人気を決定的にしました。

このように、坂本龍馬という人物そのものも当然興味深いのですが、坂本龍馬という人物がこれまでどのように語られてきたか、そのイメージがどのように形づくられてきたかというところにも私たちは興味深い歴史を見ることができるのです。

（１）下線部(a)について、1866（慶応２）年に、ある２つの藩の幕府に対する軍事同盟が、坂本龍馬の仲介で成立しました。この２つの藩は討幕運動の中心となり、その後に成立した新政府にはこの２つの藩出身の人物が多く参加しました。この２つの藩を答えなさい。

（２）下線部(b)について、大政奉還ののち、1868（明治元）年に旧幕府軍と新政府軍のあいだの１年半近くにわたる戊辰戦争が起こりました。この戦争は旧幕府軍の榎本武揚が降伏したことによって終結しましたが、この戦争の最後の戦いの地となった都市を**漢字**で答えなさい。

（３）下線部(c)について、歴史を扱うテレビドラマにＮＨＫの大河ドラマがあります。まさに昨年の大河ドラマは坂本龍馬を主人公とする『龍馬伝』を放映していましたが、さかのぼると、第１作は1963（昭和38）年の『花の生涯』でした。このドラマは、彦根藩の藩主で、幕末の大老となった井伊直弼の生涯を描いたものです。井伊直弼は外国との条約調印を断行しましたが、最後は桜田門外で暗殺されてしまいました。次のア～エは、この時代の前後に起こった出来事ですが、年代の古い順番に並べ替えなさい。

ア　アメリカ総領事ハリスの下田着任　　イ　安政の大獄
ウ　イギリスなど四か国による下関砲撃事件　　エ　日米修好通商条約の締結

（４）下線部(d)について、坂崎紫瀾は自由民権運動家として同じく高知出身の板垣退助と行動をともにしたことがありました。板垣退助は民撰議院（みんせんぎいん）設立の建白書を提出するなど自由民権運動の中心となり、のちには大隈重信とともに内閣を組閣した人物です。次のア～エのうち、板垣退助が帝国議会開設前の1881（明治14）年に結成した政党を１つ選び、記号で答えなさい。

ア　立憲政友会　　イ　憲政党　　ウ　立憲改進党　　エ　自由党

（５）下線部(e)について、ヨーロッパの大国ロシアとの戦争は、アメリカ合衆国大統領の仲介で講和条約が結ばれ、日本の勝利に終わりました。以後、日本はこの戦争の勝利により大陸への進出を強めていきますが、この講和条約の名を答えなさい。

（６）下線部(f)について、明治時代には新聞・雑誌の発行がさかんになり、小説・評論・思想などが活発に発表される場となりました。これについて、次の①～②の問いに答えなさい。

①　田舎から出てきた小川三四郎が都会のさまざまな人びととの交流のなかで成長する過程を描いた小説『三四郎』は、明治末期に『朝日新聞』に連載されました。『三四郎』の著者を答えなさい。

②　明治後期に発刊された雑誌『中央公論』は、大正時代になると、高まった民主主義的な政治思想を多く掲載しました。このような大正時代の民主主義的な政治思想を何といいますか。

（７）下線部(g)について、２度の世界大戦における日本の動きについて述べた次の文ア～エのうちから、**誤りを含むもの**を１つ選び、記号で答えなさい。

ア　第一次世界大戦において、日本は戦勝国となり、戦後に発足した国際連盟の常任理事国となりました。
イ　第一次世界大戦において、日本は中国のイギリス植民地に対して軍事行動を起こし、中国での勢力拡大をねらいました。
ウ　第二次世界大戦において、日本はドイツ・イタリアと三国同盟を結び、アメリカ・イギリスと対立しました。
エ　第二次世界大戦において、日本は広島・長崎への原子爆弾投下後にポツダム宣言を受け入れ、敗戦しました。

（８）下線部(h)について、司馬遼太郎が活躍したのは高度経済成長期の日本で、社会が大きく変化した時代でした。次のア～エのうち、高度経済成長期より前の出来事を１つ選び、記号で答えなさい。

ア　沖縄の日本復帰　　イ　公害対策基本法の制定
ウ　東海道新幹線の開通　　エ　サンフランシスコ平和条約の調印

5　次の文を読み、後の問いに答えなさい。

2009年８月の衆議院議員総選挙で日本の政治は大きく変化し、政権交代が行われました。そして、(a)2010年７月の参議院議員選挙では、いわゆる「ねじれ国会」の状態になりました。政権交代を選択したのはもちろん(b)選挙権を持っている国民です。選挙の結果で(c)議席を多数獲得した政党が政権を取り、さらにその多数の議席を占めた政党あるいは複数の政党が推薦する国会議員が国会で内閣総理大臣に選ばれることになります。この内閣総理大臣を中心に政治を行っていくのが(d)内閣です。そして、(e)内閣は国会に対して責任を持って政治にあたることになります。国会には、(f)衆議院と参議院の２つの議院があり、この２つをあわせて国会とよびます。このような制度は、(g)私たちの身近な政治を行っている知事や北海道議会の政治のあり方とは少し違います。

北海道の政治は住民から直接選挙で選ばれる(h)知事を中心とする北海道という機関が住民のための仕事を行い、1つの議会からなる北海道議会の議員が国の法律にもとづき(i)その地方にだけあてはまる法令を定めたりして、地域住民のための政治を行っています。このように国と地方の政治によって国民の権利や生活が守られています。ただ、私たち国民も(j)国民として果たさなければならない義務もあることも忘れてはいけません。

（1）下線部(a)について、現在の「ねじれ国会」とはどのような状態をいいますか。次のア～エのうちから１つ選び、記号で答えなさい。

ア　衆議院では与党の自民党、公明党が最大の勢力を持っているのに対して、参議院では野党の民主党、国民新党、共産党などが最大の勢力を持っている状態。
イ　衆議院では野党の民主党、国民新党、共産党などが最大の勢力を持っているのに対して、参議院では与党の自民党、公明党が最大の勢力を持っている状態。
ウ　衆議院では与党の民主党、国民新党が最大の勢力を持っているのに対して、参議院では野党の自民党、公明党などが最大の勢力を持っている状態。
エ　衆議院では与党の民主党、国民新党と野党の自民党、社民党、共産党などが同数で並んでいるのに対して、参議院では野党が最大の勢力を持っている状態。

（2）下線部(b)について、日本では国の政治のあり方を決める権限は国民にあります。このことは国民主権といって、日本国憲法の前文や第１条などで明記されています。明治憲法といわれる1889年に発布された大日本帝国憲法では、この権限はどこにあると定められていましたか。

（3）下線部(c)について、現在の首相は菅直人内閣総理大臣ですが、日本の内閣総理大臣は、国民が選んだ国会議員の中から、国会の議決によって選ばれます。このように選挙による国民の代表が総理大臣を選んだり、法律を定めたりするような政治のしくみを何といいますか。

（4）下線部(d)について、次のア～オから、内閣の仕事にあてはまるものを１つ選び、記号で答えなさい。

ア　弾劾裁判所を設置し、裁判官をやめさせるかどうかを審査する。
イ　天皇の国事行為に対して助言と承認をあたえ、その責任を負う。
ウ　法律・命令・規則などが憲法に違反していないかどうかを審査する。
エ　税金などの収入にもとづいて、予算案を審議し、議決する。
オ　憲法を改正するための発議を行う。

（5）下線部(e)について、内閣は国民の代表である国会から信任されて成立します。もし信任されない場合は、内閣は衆議院を解散して国民に信を問うことができます。このような内閣の制度を何といいますか。

（6）下線部(f)について、衆議院議員と参議院議員は任期や選挙制度が違います。衆議院議員はどのような選挙制度にもとづいて選ばれますか。次のア～オのうちから適当なものを１つ選び、記号で答えなさい。

ア　小選挙区制で480名の議員の全てが選ばれる。
イ　中選挙区制で242名の議員の全てが選ばれる。
ウ　比例代表制で480名の議員の全てが選ばれる。
エ　選挙区制で73名の議員と比例代表制で48名の議員が選ばれる。
オ　小選挙区制で300名の議員と比例代表制で180名の議員が選ばれる。

（7）下線部(g)について、私たちの生活に密着した地方の政治は、札幌市や長万部（おしゃまんべ）町、真狩（まっかり）村といった市町村や、北海道や青森県といった都道府県などが行っています。このような地方の政治を行う市町村や都道府県をまとめて何といいますか。

（8）下線部(h)について、知事に立候補できる年齢と任期を正しく説明しているものを、次のア～エのうちから１つ選び、記号で答えなさい。

ア　知事の被選挙権は25歳で、任期は４年である。
イ　知事の被選挙権は25歳で、任期は６年である。
ウ　知事の被選挙権は30歳で、任期は４年である。
エ　知事の被選挙権は30歳で、任期は６年である。

（9）下線部(i)について、札幌市では2009年から家庭ゴミの有料化が始まりましたが、これは札幌市議会が法律の範囲内で、札幌市だけにあてはまる法令を定めたことによるものです。このような法令のことを何といいますか。 **漢字２字**で答えなさい。

(10) 下線部(j)について、国民には国民として果たさなければならない憲法で定められている３つの大きな義務があります。納税の義務、子女に教育を受けさせる義務と、もう１つはどのような義務ですか。次のア～オのうちから１つ選び、記号で答えなさい。

ア　勤労の義務
イ　兵役の義務
ウ　国政選挙で投票する義務
エ　国勢調査に協力する義務
オ　国民年金に加入する義務